102 Mesurer une masse : g, kg, t

Compétence	Connaître les unités de mesures usuelles de masse : t, kg et g, ainsi que les relations qui les lient.
Calcul mental	**Dictée de nombres inférieurs à 10 000.** Dire : « 9 056 » ; l'élève écrit 9 056.
Prérequis oral	Une masse se mesure-t-elle en g ou en cm ?
Réinvestissement	Dénombrer les faces et les sommets d'une pyramide.
Différenciation	Remédiation : Photofiche 85 R.

....

MÉMO M7 MÉMO M8

Découvrons

1 **Observe** les balances.

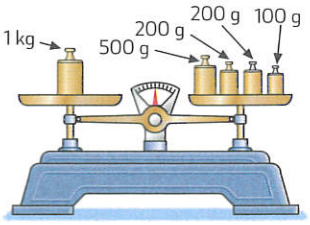

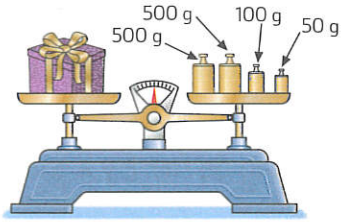

Complète. 1 kilogramme (kg) = ... g

Masse du paquet = ... g = ... kg ..... g

2 Un hippopotame pèse 1 t 700 kg.
Un rhinocéros noir pèse 1 400 kg.
Quel animal est le plus lourd ?

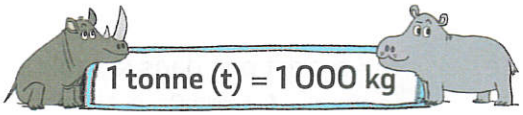

Convertis la masse de l'hippopotame en kg : 1 t 700 kg = ... kg

Rédige une phrase réponse. .....

Je m'entraîne

3 **Entoure** la bonne réponse.



100 g / 100 kg



2 g / 2 kg



400 g / 400 kg



25 t / 25 kg

4 **Calcule** la masse des objets pesés.

a

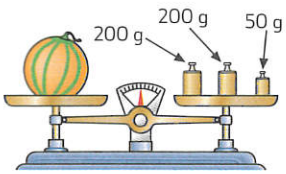

..... g

b

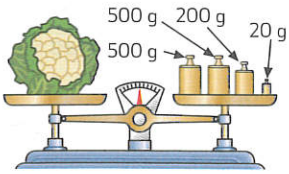

..... kg ..... g

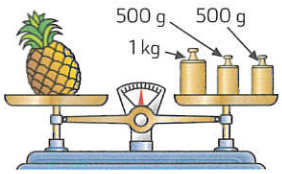

..... kg

5 PROBLÈME

Un requin blanc pèse 1 300 kg et une orque 2 t.

Quel animal est le plus lourd ?

.....



6 Combien de sommets et combien de faces comporte cette pyramide ?

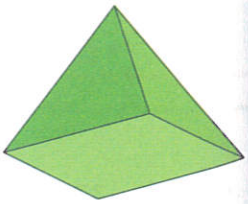

Sommets : .....

Faces : .....